SPÄHERPRÜFUNGEN



und

SPEZIALPRÜFUNGEN



TEST'S

1. Wie viele Personen (etwa) haben an der Bibel geschrieben? _____

2. Die Bibel besteht aus zwei großen Teilen. Wie heißen sie?

   _____ und _____

3. Wie viele Bücher enthält der erste Teil der Bibel? _____

4. In welcher Sprache ist er geschrieben? _____

5. Wie viele Bücher enthält der zweite Teil der Bibel? _____

6. In welcher Sprache ist er geschrieben? _____

Die Einteilung der Bibel in Kapitel und Verse ist noch gar nicht so alt.

7. Auf wen geht die Kapiteleinteilung zurück und wann war das?

   _____ im _____ Jahrhundert.

8. Auf wen geht die Verseinteilung zurück und wann war das?

   _____ im Jahr _____ .

9. Was steht in Johannes 3/16?

   _____

   _____

   _____

   _____

1. Beschrifte die Bücher des Neuen Testamentes!

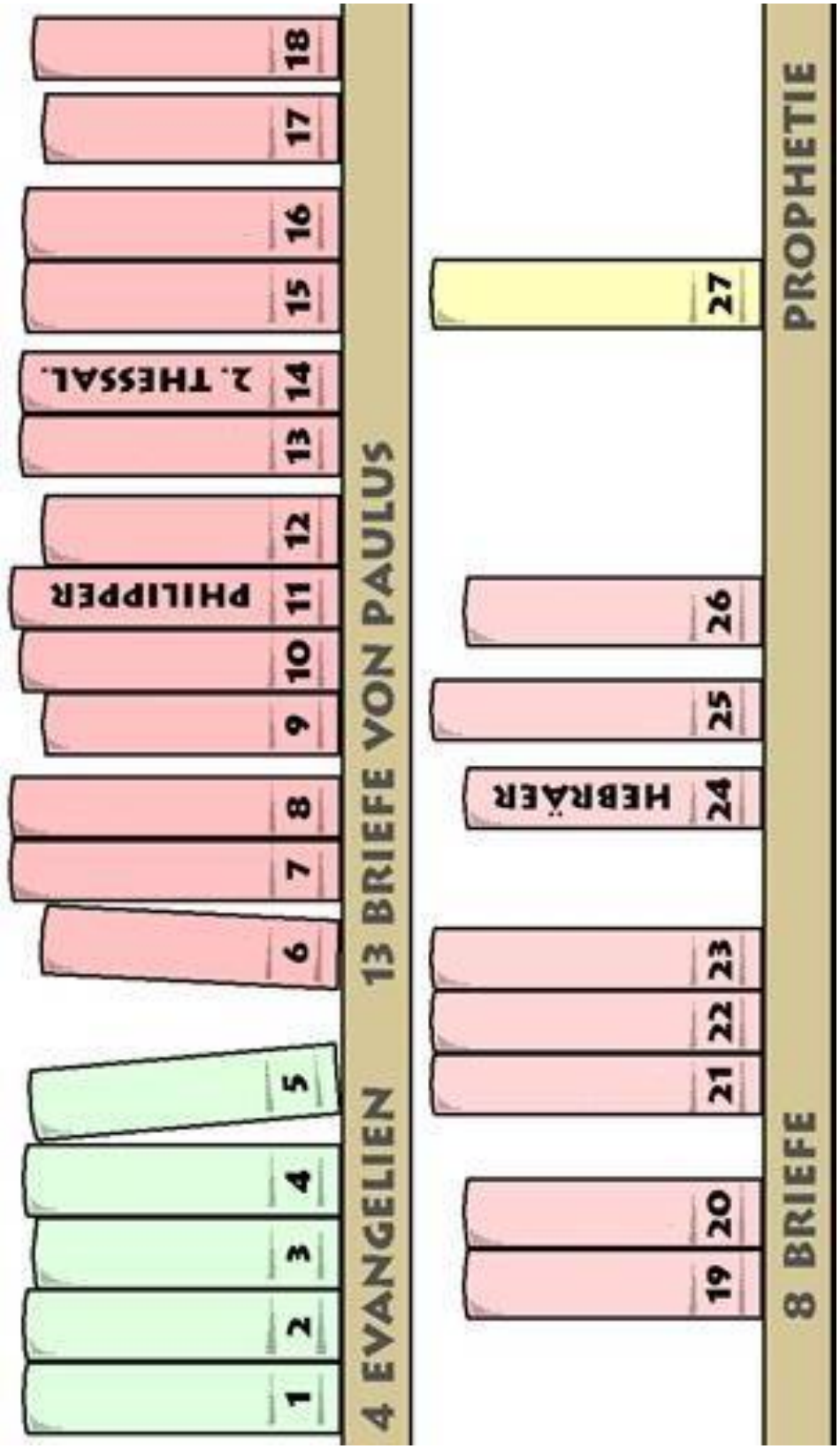

2. Schreibe 5 der 10 Gebote auf!

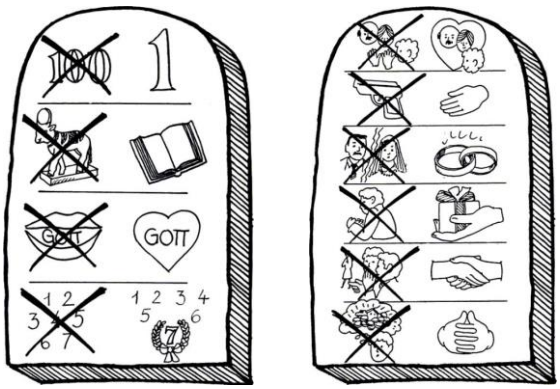

1. Beschrifte die Bücher des Alten Testamentes!

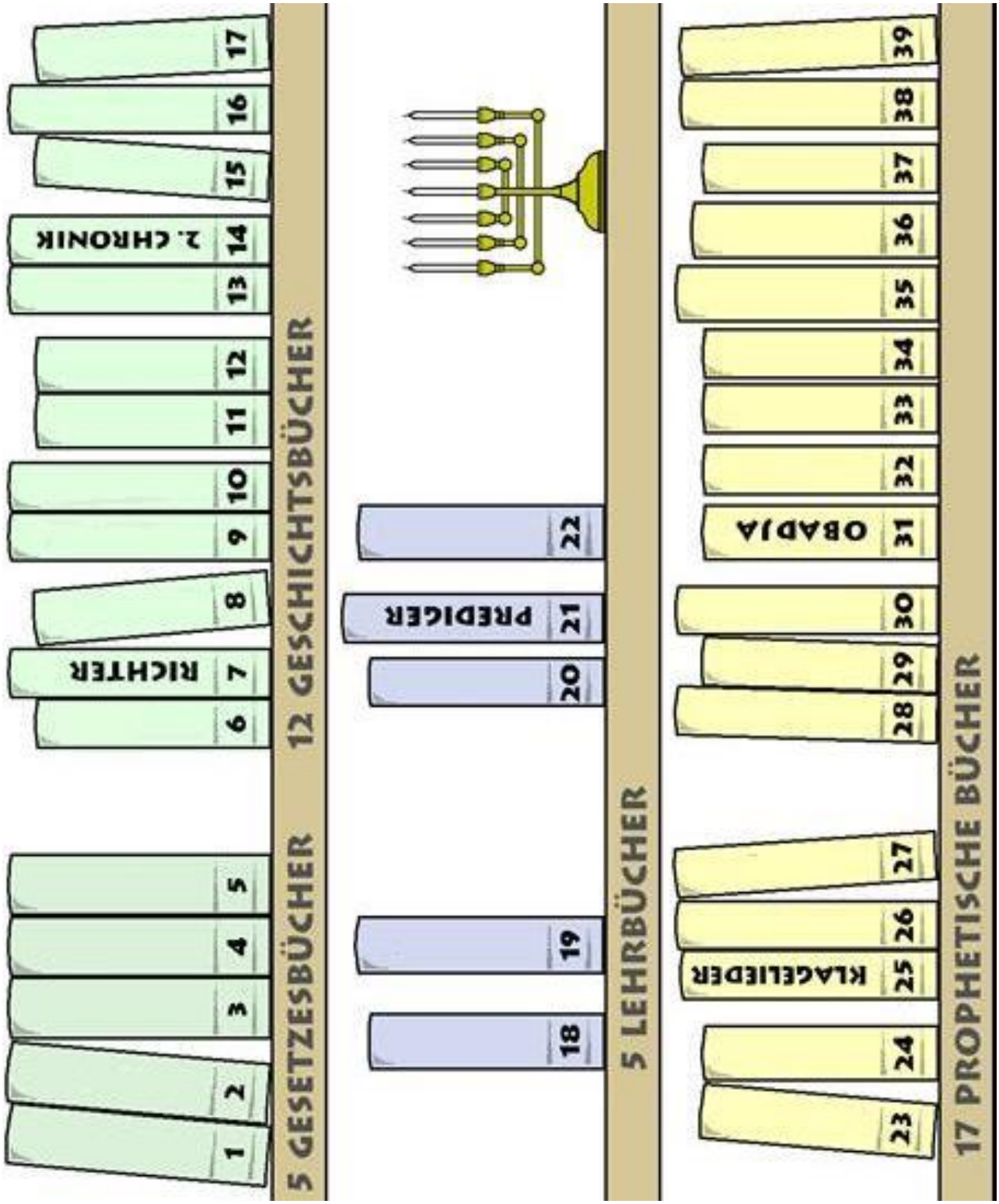

○ Bronze | ○ Silber | ● Gold | ● Spezial

○ BK | ○ JS | ○ KN | ○ KK | ○ F | ○ 1H | ○ N | ○ LK/WK | ● GS

2. Wie lauten die sieben Ich-bin-Worte Jesu?

Johannes 6/35 _____

Johannes 8/12 _____

Johannes 10/9 _____

Johannes 10/11 _____

Johannes 11/25 _____

_____

Johannes 14/6 _____

_____

Johannes 15/5 _____

1. Wie lauten die Zielsätze für Jungscharler?

_____

_____

_____

_____

_____

_____

_____

_____

_____

_____

2. Welche vier Bedeutungen hat das Ankerkreuz?

a) Kreuz _____

b) Anker _____

c) Ring _____

d) Farbe _____

2. Was symbolisieren die drei Balken des CVJM-Dreieckes?

a) _____

b) _____

c) _____

1. Welche Bedeutung hat das Eichenkreuz?

_____

_____

_____

_____

_____

2. Was weißt du über Dr. Karl-Otto Horch?

_____

_____

_____

_____

_____

_____

_____

_____

1. Was weißt du über die Geschichte der Jungschar?

_____

_____

_____

_____

_____

2. Was weißt du über die Geschichte des CVJM?

_____

_____

_____

_____

_____

_____

_____

_____

3. Welche Bedeutung hat das Weltbundabzeichen?

_____

_____

_____

_____

1. Skizziere Aufbau und Struktur des CVJM-Westbundes!

1. Schreibe die drei goldenen Knotenregeln auf!
   Ein Knoten muss ...

   a) ... _____

   b) ... _____

   _____

   _____

   c) ... _____

2. Wie nennen wir das Ende eines Endes? _____

3. Skizziere eine Bucht / ein Auge!

Bucht	Auge

1. Nenne zwei Naturfasermaterialien, aus denen Seil hergestellt wird!

   a) _____

   b) _____

2. Nenne zwei Kunstfasermaterialien, aus denen Seil hergestellt wird!

   a) _____

   b) _____

3. Welchen Nachteil haben Enden aus Hanf?

   _____

   _____

4. Welche Vorteile haben Enden aus Kunstfasermaterial?

   _____

   _____

   _____

   _____

4. Welche Nachteile haben Enden aus Kunstfasermaterial?

   _____

   _____

   _____

1. Schreibe die Erklärung der Kartenzeichen jeweils hinter die Kartenzeichen!

			

2. Schreibe die Bezeichnung der einzelnen Teile des Kompasses jeweils hinter die Buchstaben!

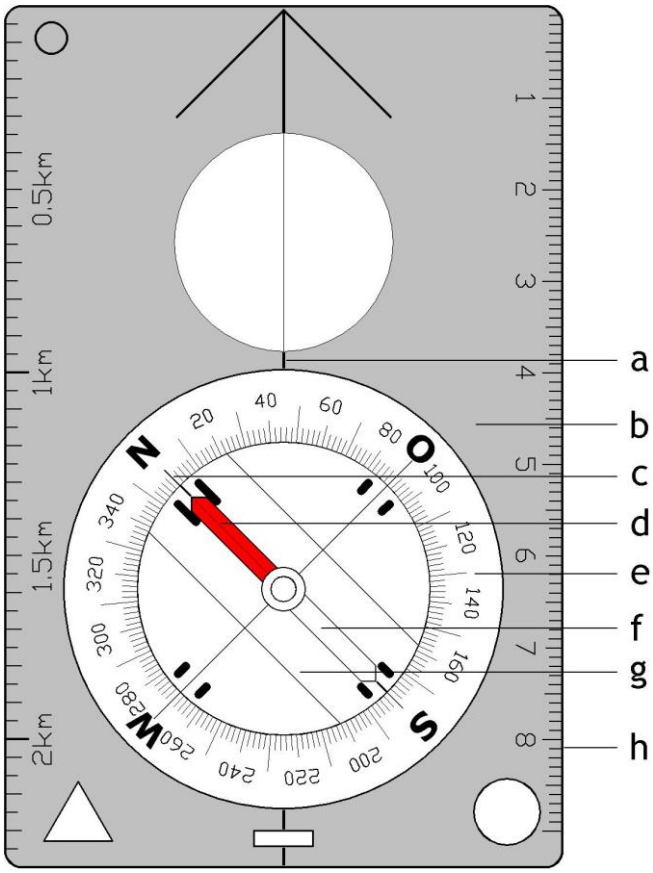

a _____

b _____

c _____

d _____

e _____

f _____

g _____

h _____

1. Welche Feuerarten sind hier zu sehen?

1. Gib stichpunktartig an, wie du eine fachgerechte Feuerstelle aufbaust!

- _____
- _____
- _____
- _____

2. Gib stichpunktartig an, wie du die Feuerstelle ordentlich verlässest!

- _____
- _____
- _____
- _____
- _____
- _____

1. Kreuze alle richtigen Behauptungen an! (☒)

- ❑ Trockenes Holz brennt besser (schneller) als nasses.
- ❑ Äste brennen besser als Späne.
- ❑ Kantiges Holz brennt besser als rundes.
- ❑ Abgelagertes Holz brennt besser als grünes.
- ❑ Rundes brennt besser als Halbrundes.
- ❑ Für ein langsames Feuer nehmen wir große, harte Holzstücke
- ❑ Weiches Holz brennt besser als hartes.
- ❑ Weichholzarten eignen sich für Feuer im Winter.

1. Für verschiedene Gelegenheiten bauen wir verschiedene Feuerarten.
   Gib an, welche Feuerart(en) wir für die jeweilige Gelegenheit bevorzugt verwenden!

   Kohtenfeuerstelle : _____

   Jurtenfeuerstelle : _____

   _____

   Lagerfeuerstelle : _____

   Stockbrot backen : _____

   Wasser kochen : _____

   _____

   _____

1. Beschrifte die Rettungskette!

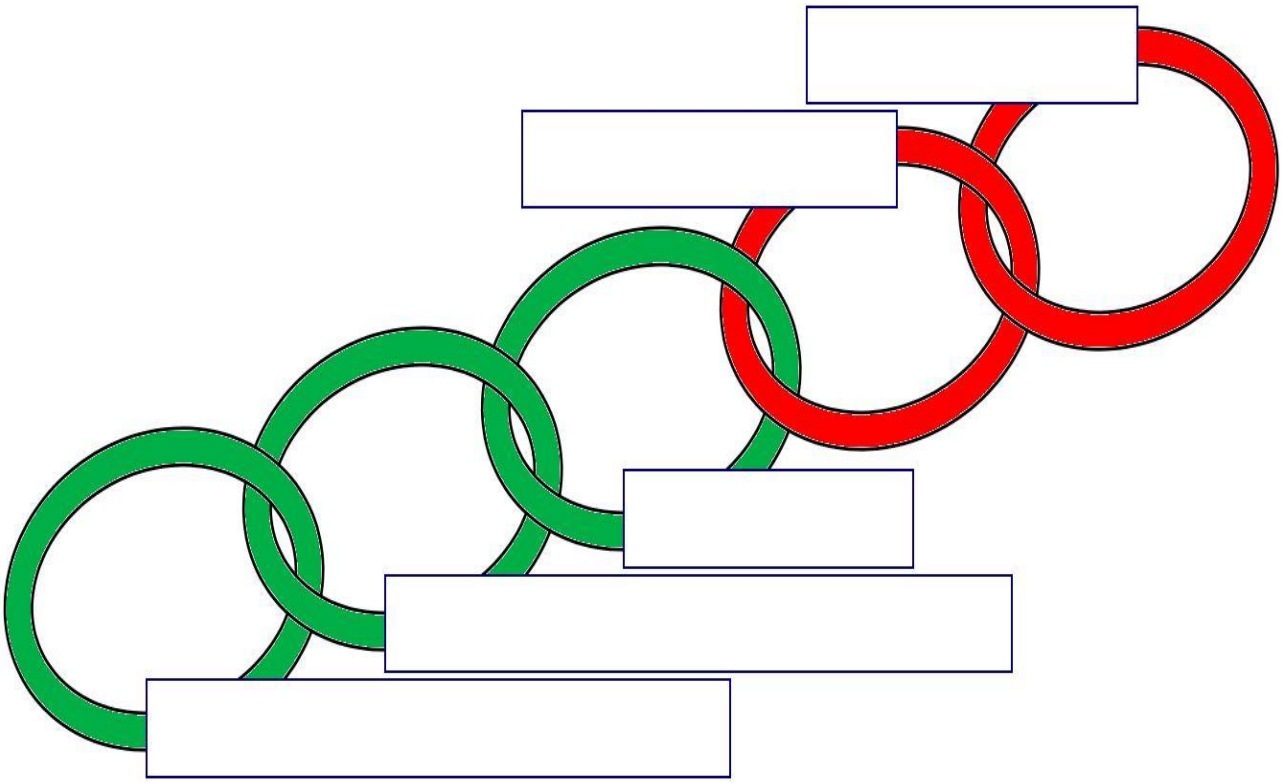

2. Wie lautet die Notrufnummer für den Rettungsdienst und die Feuerwehr in ganz Deutschland und weiten Teilen Europas? _____

3. Wie lautet die Notrufkette?

W _____

W _____

W _____

W _____

W _____

Fülle das Auffindeschema aus!

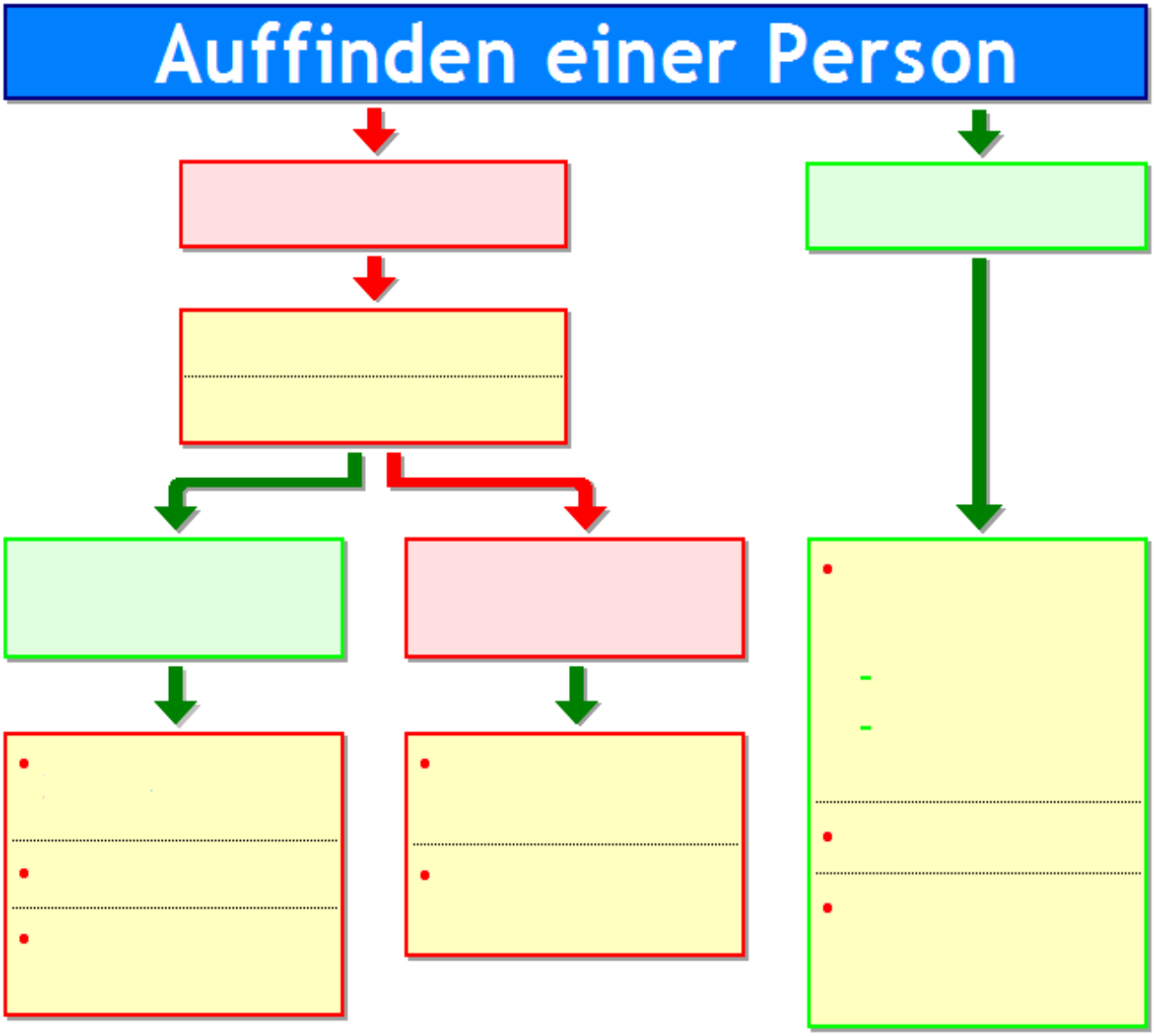

1. Welche Programmstruktur hat sich in unseren bündischen Ritterlagern seit vielen Jahren bewährt?

Vormittags:

- _____
- _____
- _____
- _____

Nachmittags

- _____
- _____
- _____
- _____

Abends (abwechselnd Lager- und Ordensabend)

- _____
- _____
- _____
- _____

Als feste Programmpunkte gehören dazu:

- _____
- _____
- _____
- _____
- _____
- _____
- _____
- _____

Wettkämpfe:

- _____
- _____

2. Vervollständige diese Liste mit den verschiedenen Arbeiten beim Aufbau einer Kohte!

- Die vier _____ werden mit der Innenseite nach oben neben-einander gelegt und zusammengeknüpft. Die zusammengeknüpfte Kohte wird _____ und an den vier Ecken mit Häringen im _____ gespannt. Die übrigen Häringe werden später eingeschlagen.
- Es werden zwei Stöcke (1,20 m lang) zum _____ rechtwinklig zusammengebunden.
- Zwei Kohtenstangen (mindestens 3,50 m lang) werden mit einem Parallel_____ zusammengebunden und genau über der Kohtenmitte aufgerichtet.
- Das _____ wird in die Schlaufen am Rauchloch eingezogen und mit einem etwa 2 m langen _____ wird die Kohte hochgezogen.
- Die restlichen _____ werden eingeschlagen.
- Ein Knüpfrand wird als _____ (teilweise) wieder aufgeknüpft.
- Die _____ wird über dem Rauchloch gespannt.

1. Löse die folgenden Geheimschriften! (Zahlenschrift)

4 5 18 10 21 14 7 19 3 8 1 18 12 5 18 9 19 20
11 1 13 5 18 1 4 19 3 8 1 6 20 12 9 3 8

5 26 20 9 16 19 20 19 9 18 1 8 3 19 7 14 21 10

2. Löse die folgenden Geheimschriften! (Umstellung)

RTRIWNEFFEOMSNUUNEGRBEISM

UNHEZDNARHCIDREUBNEKEXEHC

_____

_____

_____

GROMAMNENEHCERIWAWNIPSDLELEI

_____

_____

_____

1. Löse die folgenden Geheimschriften! (Verschiebeschrift)

GLHVH JHKHLPVFKULIW KDW FDHVDU YHUZHQGHW

_____

_____

_____

_____

2. Löse die folgenden Geheimschriften! (Gittercode)

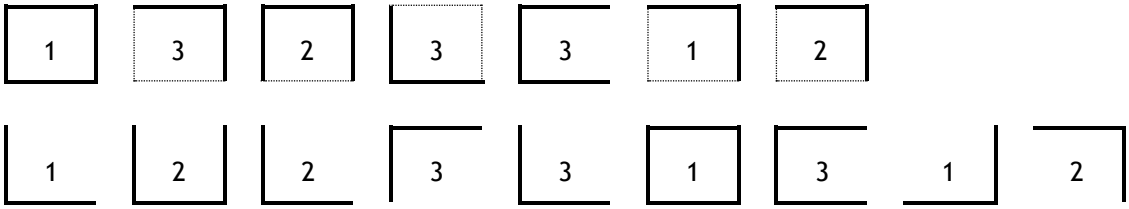

_____

_____

_____

72 63 22 23 23 61 73 52 42 72
11 43 72 93 71 13 32 73 43 22

_____

_____

_____



1. Löse die folgenden Geheimschriften! (Quadratschrift)

74 82 81 61 72 65 92 74 93 94 65 93
93 63 73 84 65 83

_____

_____

RU US AA RL UA BA RA BK UL RU UA UU
UA AS RU UU NS BS

_____

_____

2. Löse die folgende Geheimschrift! (Schlüsselwort Lukas)

TEA OAAEU HR RFNIHGWF SRHE NUSH CNEEIG ETW

1. Verschlüssele den folgenden Text mit dem Schlüsselwort Felix!

UNSER RITTERLAGER WAR BEI WAISCHENFELD

1. Löse die folgende Geheimschrift! (Schablonenschrift)

LIAICR SEHJTC FHAUUR NUENDG EFUSEV ICNEHM

_____

_____

Benutze die unten abgebildete Schablone!



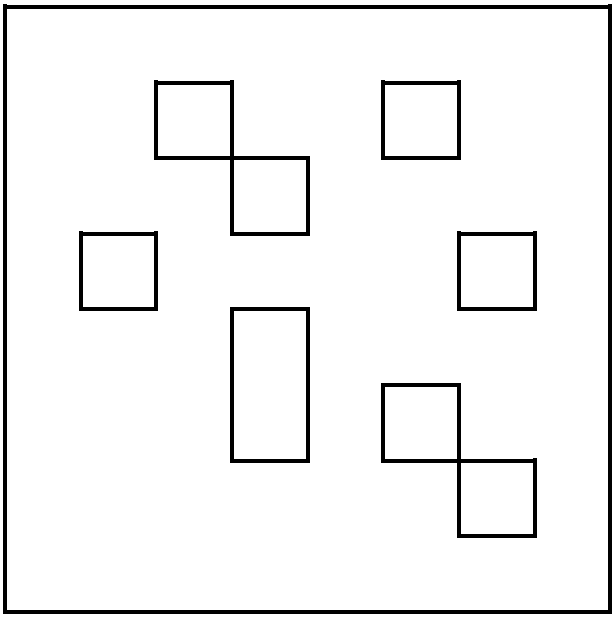

1. Verschlüssele den folgenden Text mit der Schablonenschrift!

TREFFPUNKT DONNERSTAG AN DER DICKEN BUCHE!

_____

_____
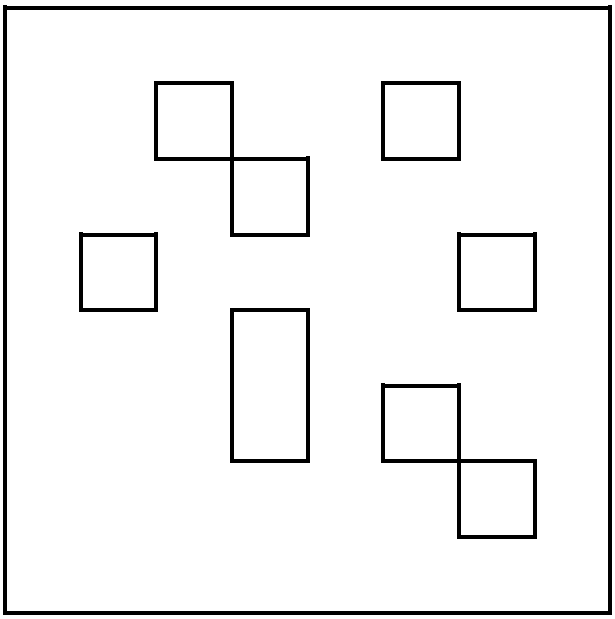
Benutze die unten abgebildete Schablone!